Tasca setmanal del 21 al 24 d'abril i dilluns 27

Dimarts 21

Ets un bon detectiu? Posa't a prova i descobrix les pistes que t'ajudaran a saber qui és Carles.

❶ Ordena les paraules i descobrix la primera pista.

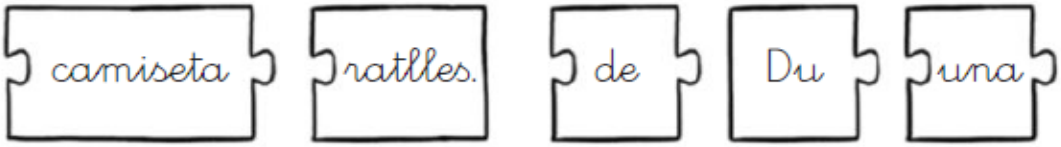

Pista 1 ▶

❷ Per a saber quin número du Carles al pantaló, resol les restes i en acabant suma els resultats.

$$\begin{array}{r} 11 \\ -\ 4 \\ \hline \square \end{array} \qquad \begin{array}{r} 13 \\ -\ 6 \\ \hline \square \end{array} \qquad \begin{array}{r} 14 \\ -\ 9 \\ \hline \square \end{array}$$

$$\square + \square + \square = \square$$

Pista 2 ▶ El pantaló de Carles té el número $\square$.

❸ Copia el text canviant les paraules subratllades per altres que signifiquen el contrari i obtindràs la tercera pista.

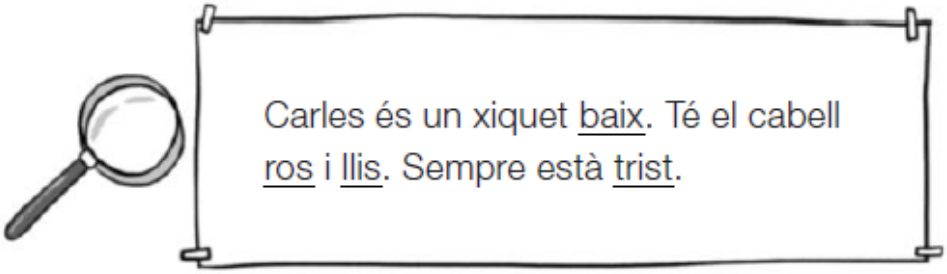

Pista 3 ▶

❹ Ratlla els números que tenen 6 unitats i escriu la quarta pista amb les síl·labes dels números que queden.

68	66	26	69	16
Li	Es	les	en	pi
62	56	64	63	68
can	co	ta	cui	dar
6	61	8	76	60
blan	les	plan	da.	tes.

Pista 4 ▶

❺ Ara llig totes les pistes, pensa qui és Carles i encercla'l.

❻ Quina pista t'ha costat més de descobrir?
Explica per què.

Dimecres 22

REPÀS DE VALENCIÀ

❶ Escriu separant en síl·labes.

castell | armari | papallona

❷ Escriu oracions amb les paraules proposades.

nespres | cistella | Plàcid

bresquilles | Blai | cabàs

❸ Escriu. Què és?

4 Copia tres plats i elabora el teu menú.

RESTAURANT L'OGRE FELIÇ

Croquetes de closca de caragol.

Grills cruixents gratinats.

Ungles grogues amb salsa de clarió.

Tentacles de polp ensucrats.

Creps de pèls de tigre fregits.

1r ▶

2n ▶

3r ▶

5 Completa amb el, la o l'.



frigorífic

ostra

entrepà

dragó

fruita

fletxa

Dijous 23 d'abril. Dia del Llibre.

Para el día de hoy vamos a proponeros unas cuantas actividades relacionadas con el Día del Libro.

Vamos a ver y a conocer un poquito de literatura clásica con "Platero y yo" de Juan Ramón Jiménez. Primero veremos el siguiente video:

https://youtu.be/9NDXym1pomo

Quien quiera puede contarles un poquito de la biografía de Juan Ramón Jiménez



Juan Ramón Jiménez Mantecón *(Moguer, Huelva, 23 de diciembre de 1881-San Juan, 29 de mayo de 1958) fue un poeta español. Ganó el Premio Nobel de Literatura en 1956, por el conjunto de su obra, entre la cual destaca la narración lírica Platero y yo.*

Vídeo de 5 minutos sobre su biografía:

https://youtu.be/JLmWc9gbvy8

Después haremos la ficha que adjuntamos, en la que leerán el texto de *"Platero y yo"* y harán un dibujo. Para ayudarles podéis ver las instrucciones de cómo dibujar un burro o bien de frente o bien de perfil. Nos podéis enviar los dibujos, nos gustaría mucho ver cómo han quedado.





También os dejamos un dibujo por si os apetece pintarlo. De no tener impresora se puede hacer un dibujo conmemorativo del día y pintarlo.

Podemos terminar el día con una manualidad. ¿Qué os parece crear vuestro punto de libro? Ahí os dejamos unas ideas. ¿Tú cuál eliges? ´

https://youtu.be/1Eownks23vw

https://youtu.be/5PR-Bz1b0mE

Día del libro
23 de Abril

Pintodibujos.com

Divendres 24

REPÀS MONEDES

Nombre:	Fecha:	

Nos vamos de compra. ¿cuánto dinero te queda? Completa

TENGO	COMPRO	ME QUEDA
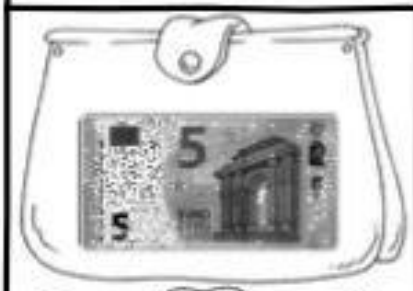	3 €	
	2 €	
	2 €	
	1 €	
	3 €	

Un dels continguts on veiem que els nostres alumnes fallaven més són les monedes i bitllets. Per això, vos presentem una sèrie de pàgines per a practicar-les jugant. Esperem que vos agraden.

http://www.cyberkidzjuegos.com/cyberkidz/juego.php?spelUrl=library/rekenen/groep5/rekenen2/&spelNaam=C

https://teachingmoney.co.uk/eurosite/wb/ClassPresentsEURO.html

https://www.mundoprimaria.com/juegos-educativos/juegos-matematicas/juego-monedas

https://www.mundoprimaria.com/juegos-educativos/juegos-matematicas/juegos-monedas-euro

Dilluns 27 d' abril

Aquest dia en principi era festiu, era el dia que donava l'ajuntament com a festa del poble. Queda ajornat per a més endavant. Per tant, al ser laborable hi ha tasca escolar. Continuarem fent un repàs.

Empezaremos con una adivinanza que podrán copiar en una hoja o libreta, respetando los renglones. Dibujarán y escribirán la solución.

PRÀCTICA DE MATE

17. Escriu <, > o =.

16 ___ 12 3 ___ 9 – 6 17 ___ 15 6 ___ 11

7 + 1 ___ 9 – 2 18 ___ 20 9 + 4 ___ 13 14 ___ 12

18. Escriu amb lletras.

27 _____ 36 _____ 13 _____

34 _____ 4 _____ 40 _____

16 _____ 21 _____ 39 _____

19. Encercla la meitat dels objectes de cada grup.

La meitat de 14 és . La meitat de 12 és . La meitat de 8 és .

20. Escriu + o –.

7 ___ 3 = 10 16 ___ 4 = 12 32 ___ 6 = 38

48 ___ 5 = 43 41 ___ 1 = 40 21 ___ 8 = 29

Nom _____ Data _____

La pintora

Margarida pinta quadres
de paisatges africans
plens d'estruços, de flors blaves,
de dromedaris ballant,
de cocodrils amb sabates,
de lleopards elegants
i elefants movent la trompa
com si anaren saludant!

❶ Ratlla l'animal que no pinta Margarida.

❷ Localitza i marca en el text.

fl fr tr dr

❸ Subratlla dues paraules del text amb la g de gat.